平成21年度　熊本県立熊本高等学校　前期選抜

検　査　Ⅰ　（第 1 時限）

（国語・社会に関する問題）

＜６０分＞

注　　意

1　「開始」の合図があるまで問題用紙を開いてはいけません。
2　検査Ⅰの問題は1ページから9ページです。解答用紙は2枚あります。
3　「開始」の合図があったら，まず，受検番号を問題表紙及び解答用紙の受検番号欄に記入しなさい。
4　答えは，すべて解答用紙に記入しなさい。
5　「終了」の合図があったら，ただちに筆記用具を置き，**問題用紙**の上に**解答用紙（その２）**を、さらにその上に**解答用紙（その１）**を裏返しにして置きなさい。
6　検査が終了したら，問題用紙は持ち帰りなさい。

受検番号	

二　次の文章を読んで、後の問いに答えなさい。

あと少しで三歳になろうという子供は、言葉が急激に増えていく時期のようだ。日々、動物実験に立ち会っている面白さがある。大人になると、支離滅裂な言葉というのをなかなか話せないが、彼らはただ、口唇の快感のみにまかせて言葉をころがす。腰をこごめてその世界に入ると、めまいをおこすようなできごとにぶつかる。

お店屋さんごっこを盛んにやりだすが、店員になったりお客さんになったり。演じるということが自然に始まるので、そのことにもびっくりしてしまう。役の自分とそれとは別の自分を、認識しているってことでしょうかね。考え始めるとくらくらする。

佐野洋子(注1)さんのエッセイ集『神も仏もありませぬ』を読んでいたら、息子さんが三歳のとき、「ねえ、僕が初めて僕に会ったのはいつ？」と聞いたそうだ。こういうのを読むと驚愕する。

お店屋さんごっこといえば、子供があるとき突然に、「ちーくーみーまー、ください」と言ったことがあった。「ちーくーみーまー」とは、いったい何なのか。泥のなかから、ひとかたまりの混沌(注2)を、素手でつかみとってきたような感触があった。音引きの面白さを発見したのか。

ちーくーみーまー、その、おそろしいような響きにつられて、「それはありません。えーめーてーみーならあります」と答えてみた。すると子供は「じゃあ、くーみーてーもー、ください」と言う。「ふーみーちーもーではいかがですか」と返す。子供は乗ってきて、こんなことがしばらく、わたしにしてみれば、永遠に等しいような長いあいだ交わされた。そして彼らは不意に飽きる。取り残されるのはわたしのほうだ。

子供の世界にはいったい、どんな時間が流れているのかと思う。彼らはたいへんに繰り返しが好きだが、①あの、終わりのない循環する時間感覚から、わたしたちはいつ、どのようにして、はじきだされてしまったのだろう。気が付けば、きのう、きょう、あす、が連続していく、レールのような味気ない時間の線上に投げ出されている。

「いま」が絶えず、噴水のように吹き上がる子供世界は、日常にあって魔界である。そこに触れるとき、私たちも、時間からつかの間、解放され、自由な無時間空間に遊ぶ。

彼らはまた、「きのう」という言葉を、とても大きな範囲で使う。「きのう、公園に行ったの」と言っても、正確には、かなり前であったり、あるいは未来への願望を含んだ予知であったりする。

過去、現在、未来は、まざりあっているし、現実と虚構の区別も曖昧だ。「えっ、ほんとに行ったの？」そうたずねると、変な顔をして宙を見ている。自分の出した言葉の行方を自分で追いかけているような表情である。自分が言ったのに、その言葉はどこか自分のものではないというように。

その発言を嘘といってもいいが、彼らは嘘をつくことによって、仕事をしているように見える。何かをつくっているように見える。泥の粘土のような素材で素手を汚しながら、自分自身をつくっているのかもしれない。

まだ、何もモノが分からない、と形容される彼らの内面では、確かにものごとが分かれていない。子供たちは泥の混沌を生きているのだ。

しかしその泥のなかから、時折、光のような直感で、わたしたちを射るようなことを言うこともある。今まで回路が閉ざされていた異質のものどうしがつながり、そこに知性の流れる道が、まさに開通したという感じである。②分かっていないという前提でつきあうと、覆される瞬間がくる。

（小池昌代（こいけまさよ）著「ちーくーみーまー」による）

（注）

1　佐野洋子……エッセイスト、絵本作家。代表作に『一〇〇万回生きたねこ』など多数。

2　混沌……物事が入り混じって区別ができないこと。また、そのような状態。

問1　傍線部①とあるが、ここでいう「はじきだされてしまった」というのは、大人がどうなってしまったということですか、**九十字以内**で説明しなさい。

問2　傍線部②とあるが、筆者は「子供」をどのような存在であると考えていますか、**八十字以内**で説明しなさい。

3　次の年表は，第一次世界大戦の始まりから１９４０年代までの時期における，わが国および世界各地の状況を示したものである。これを見て，後の問いに答えなさい。

年	できごと
１９１４	(a)第一次世界大戦が始まる
(b)１９１８	(c)原敬（はらたかし）内閣が成立する
１９１９	ベルサイユ条約が結ばれる
１９２０	(d)国際連盟が発足する
１９２５	(e)ラジオ放送が始まる
１９２９	(f)世界恐慌がおこる
１９３９	第二次世界大戦が始まる
１９４１	太平洋戦争が始まる
〃	(g)ドイツとソ連との間に戦争が始まる
１９４５	(h)ソ連が日本に対する攻撃を開始する
〃	ポツダム宣言を受け入れ，以後(i)日本の民主化が始まる

問１　年表中の下線部(a)について，わが国は第一次世界大戦に日［A］同盟を理由に，［B］に宣戦布告し，連合国の側に立って参戦した。［A］に該当する国と［B］にあてはまる国を下の地図のア～オのうちからそれぞれ一つずつ選び，記号で答えなさい。

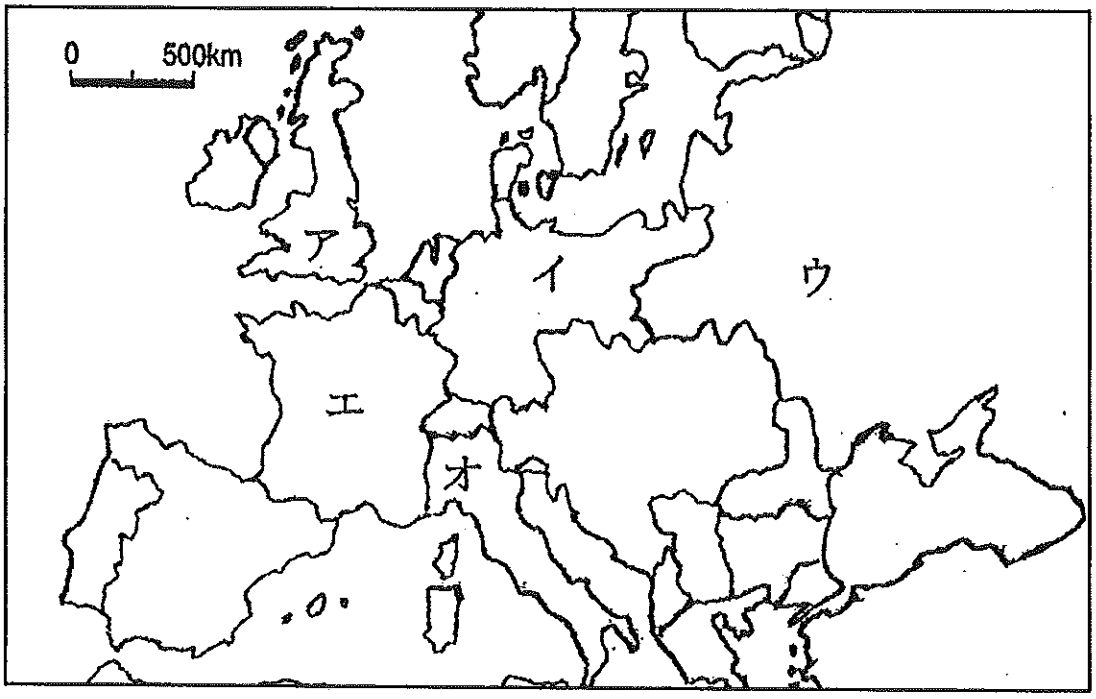

問２　年表中の下線部(b)に関連して，次の文章を読んで，下記の①，②に答えなさい。

> このニュースのはじまりは，富山県の北部，日本海にのぞんだ小さな港町である西水橋からであった。漁夫の町ともいえるこの町の住民たちは，獲物をもとめて遠くカラフト海岸におもむく。その年の夏も，豊漁で魚の値がやすいため，漁夫たちはまだかえれないでいた。ところが，米の値は日ましにあがるばかり，漁夫の妻たちは，わずかな食糧のたくわえをつかいはたし，ひもじさに苦しめられていた。ところが米の有名な産地であるこの地方では，投機をもくろむ都市の商人によって，米がどんどん県外移出され，ますます値上がりをまねいていた。１９１８年８月３日といえば，シベリア出兵が宣言されたちょうど翌日のことである，暑いその日も暮れて，夕闇が家々の切りたった屋根にひろがりはじめたとき，２～３００人にのぼる漁夫の妻たちが浜辺にあつまり，３隊にわかれて町へ進んでいった。１隊は，町長の家へいって県外移出に反対のむねをのべ，他の２隊は，米屋へいって安売りを要求した。
>
> （西岡虎之助，鹿野政直『日本近代史』より）

① 上の文章は，１９１８年に全国的な広がりをみせたできごとについて述べたものである。このできごとなどを契機にいろいろな社会運動が活発に行われるようになった。当時の活発化した民衆の動きについて，この**できごとの名称**と**社会運動の例**を入れて**２５字以内**で説明しなさい。

② 上の文章の下線部に関連して，次の表は異なる地域の四つの都市の気温の月別平均値と降水量の月別平均値を表したものである。日本海側にあると考えられる都市をＡ～Ｄのうちから一つ選び記号で答え，それを選んだ理由について**２０字以内**で説明しなさい。

		1月	2月	3月	4月	5月	6月	7月	8月	9月	10月	11月	12月	全年
A	気温	－4.0	－4.7	－1.7	3.2	7.3	10.5	14.4	17.3	15.5	11.1	5.0	－0.5	6.1
	降水量	43	29	52	78	106	93	101	118	163	114	86	47	1030
B	気温	5.8	6.1	8.9	14.4	18.7	21.8	25.4	27.1	23.5	18.2	13.0	8.4	15.9
	降水量	49	60	115	130	128	165	162	155	209	163	93	40	1467
C	気温	16.6	16.6	18.6	21.3	23.8	26.6	28.5	28.2	27.2	24.9	21.7	18.4	22.7
	降水量	115	125	160	181	234	212	176	247	200	163	124	101	2037
D	気温	3.7	3.6	6.5	12.2	16.9	20.9	25.1	26.6	22.2	16.7	11.3	6.5	14.3
	降水量	266	184	153	144	154	194	227	164	242	188	267	287	2470

（『理科年表』2005年度版による）

問３　年表中の下線部(c)に関連して，次の二つの表を参考にして，原敬内閣の特徴について桂太郎内閣と比較しながら，**５５字以内**で説明しなさい。

【桂太郎内閣の構成】（１９１２年）

役　職　名	出身・所属等
内閣総理大臣	長州閥・軍人
外務大臣	長州閥・軍人
注1)内務大臣	薩摩閥・貴族院議員
注2)大蔵大臣	官僚
陸軍大臣	軍人
海軍大臣	軍人
司法大臣	官僚
文部大臣	長州閥・貴族院議員
農商務大臣	長州閥・貴族院議員
注3)逓信大臣	貴族院議員

【原敬内閣の構成】（１９１８年）

役　職　名	出身・所属等
内閣総理大臣	立憲政友会
外務大臣	外交官
内務大臣	立憲政友会
大蔵大臣	立憲政友会
陸軍大臣	長州閥・軍人
海軍大臣	軍人
司法大臣	立憲政友会
文部大臣	立憲政友会
農商務大臣	立憲政友会
逓信大臣	立憲政友会

（『日本史広辞典』による）

注１）内務大臣…地方行政や治安などを担当する官庁である内務省の長。
注２）大蔵大臣…国の財政などを担当する官庁である大蔵省（現在の財務省にあたる）の長。
注３）逓信大臣…通信や鉄道関係などを担当する官庁である逓信省の長。

問４　大きな被害をもたらした第一次世界大戦の反省から，戦争をふせぐための様々な努力がなされた。年表中の下線部(d)の国際連盟はその一つであったが，発足の当初からその基盤が弱かった。その理由を**二つのことがら**を入れて**５０字以内**で説明しなさい。

問５　年表中の下線部(e)について，大正時代の文化の大衆化に大きな役割をはたしたメディアの発達について，**ラジオ以外の二つのメディアの種類**を入れて**３０字以内**で説明しなさい。

問６　年表中の下線部(f)について，世界恐慌は，アメリカのニューヨーク株式市場での株価大暴落をきっかけに起こった。ニューヨークで株式の大暴落が起こった日は，１０月２４日であり，取引開始時刻は午前１０時であった。ニューヨークが１０月２４日午前１０時のとき，ロンドンは何月何日の何時か答えなさい。なお，ニューヨークの経度は西経７５度とする。

問７　世界恐慌に関して，次の二つの資料から，アメリカ合衆国では１９３４年には経済が回復に向かっていることがわかる。この理由について，１９３３年から実施された経済回復政策の内容と，その政策の名称，実施した大統領の名前を入れて**５０字以内**で説明しなさい。

【１９２９年を１００としたときの各国工業生産指数の推移】

	アメリカ	イギリス	フランス	ドイツ	ソ連
1928 年	93	94	92	99	79
1929 年	100	100	100	100	100
1930 年	81	92	100	86	131
1931 年	68	84	86	68	161
1932 年	54	84	72	53	183
1933 年	64	88	81	61	196
1934 年	66	99	75	80	238
1935 年	76	106	73	94	193

（『国際連盟月報』による）

【アメリカ合衆国における失業率の推移】

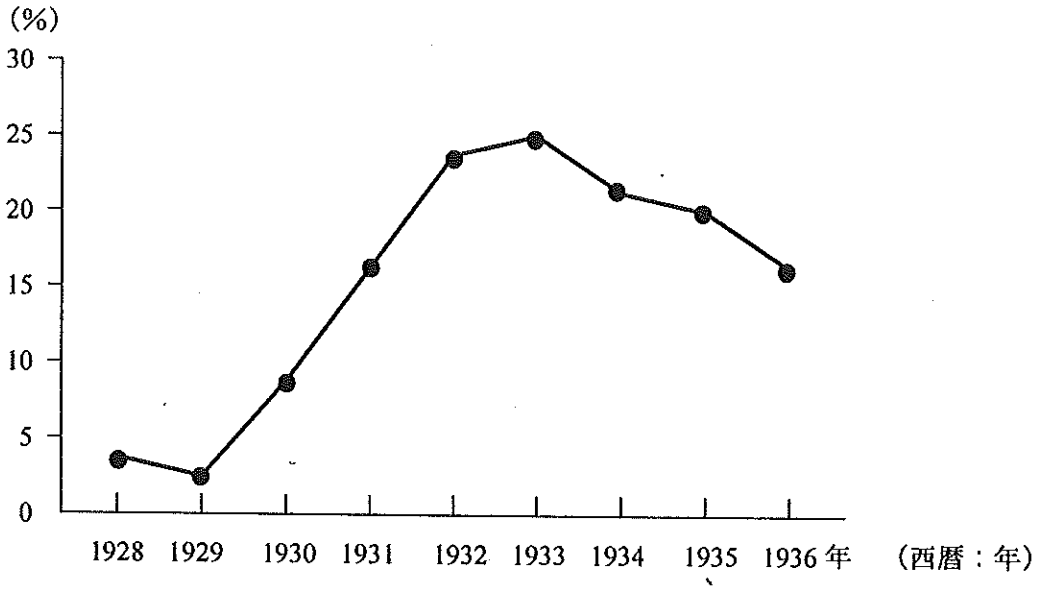

（『史料が語るアメリカ』による）

問８　年表中の下線部(g)および(h)からわかるように，ソ連は，わが国およびドイツと戦うことになった。ソ連は，わが国およびドイツと開戦する以前に，両国と同時に戦争することを避けるため，どのような外交政策をとったか。わが国およびドイツ，それぞれについて**３０字以内**で説明しなさい。

問９　年表中の(i)に関連して，民主化政策の結果，農村でも大きな変化がおこった。下のグラフを参考にして，変化をもたらした政策およびその結果を**５０字以内**で説明しなさい。

【熊本県における自作地と小作地の割合】

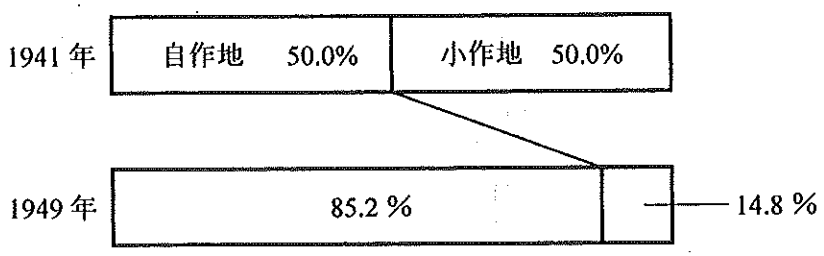

【熊本県における自作・小作別農家数の割合】

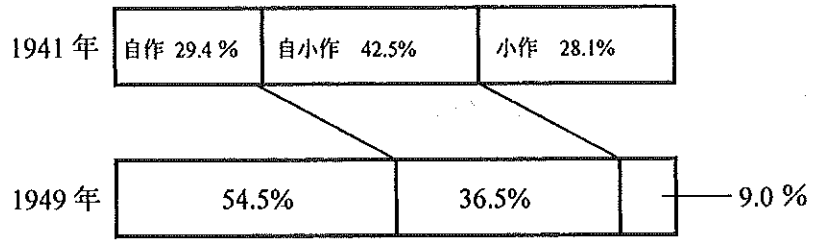

(『農地改革顛末概要』による)

問 10　同じく年表中の(i)に関連して，わが国でも新しい民法のもと男女同権が実現したが，今日でも社会の様々な分野で男女共同参画をさらにいっそう進めていくことが求められている。下の文章は，平成 14 年に制定された熊本県男女共同参画推進条例の前文であり，県，県民，事業者および市町村が連携協力して男女共同参画社会実現に努力すべきことが述べられている。これを読んで，あなたが企業の経営者であったら，従業員の仕事と家庭の両立を支援するためどのような取組ができるか，説明しなさい。**具体例を二つ**入れて**５０字以内**で説明すること。

> 男女が，互いにその人権を尊重しつつ，責任を分かち合い，性別にかかわりなく，その個性と能力を十分に発揮できる男女共同参画社会の実現は，少子高齢化の進展，経済活動の成熟化など社会経済情勢が急速に変化するなかにあって，県民一人一人が人として尊重される真に豊かで活力のある地域を実現するために重要な課題である。
>
> (中略)
>
> 男女共同参画社会の実現が，本県の将来を決定する重要な課題であることを深く自覚し，県，県民，事業者及び市町村が連携協力しながら，男女共同参画社会の形成に向けた取組を総合的かつ計画的に推進するため，この条例を制定する。